2年数学 4 平行と合同	（8） 三角形の合同条件 1	学習日　　月　　日（　　）

2つの三角形が合同になるための条件

- 3組の辺がそれぞれ等しい。
- 2組の辺とその間の角がそれぞれ等しい。
- 1組の辺とその両端の角がそれぞれ等しい。

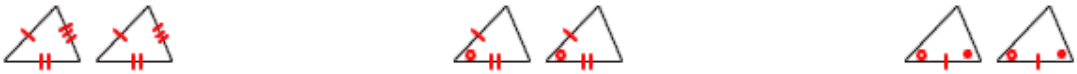

印刷して、紙の上でやってネ！

空欄をうめて,2つの三角形が合同であることを,説明しなさい。

1

△ABCと　　において,

AB＝
BC＝
∠B＝

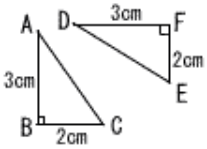

（　　）
がそれぞれ等しいから,

△ABC≡

2

△ABCと　　において,

AB＝
BC＝
CA＝

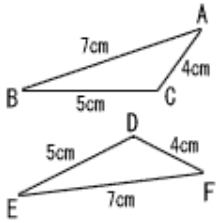

（　　）
がそれぞれ等しいから,

△ABC≡

3

△ABCと　　において,

BC＝
∠B＝
∠C＝

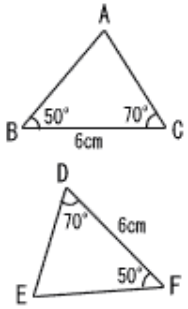

（　　）
がそれぞれ等しいから,

△ABC≡

4

△ABCと　　において,

AB＝
BC＝
∠B＝

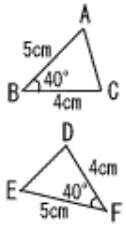

（　　）
がそれぞれ等しいから,

△ABC≡

5

△ABCと　　において,

BC＝
AC＝
∠ACB＝

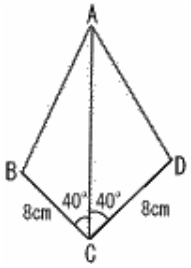

（　　）
がそれぞれ等しいから,

△ABC≡

6

△ABEと　　において,

AE＝
BE＝
∠AEB＝

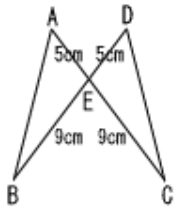

（　　）
がそれぞれ等しいから,

△ABE≡